新北市立鶯歌國民中學113 學年第一學期九年級社會科第三次段考試題

地理科

(　　)34. 第二次世界大戰後期，美軍為加速近逼日本本土，並減少盟軍損失，執行了「跳島」戰術，選擇奪取日軍在大洋洲島群中的重要島嶼，且發生許多重要的戰役。請問：依上述，顯示大洋洲中的島嶼具有下列何種價值？
(A)經濟海域的擴張　(B)帶動觀光業的發展　(C)交通、戰略地位重要　(D)可安置大量移民。

(　　)35. 2024 年 12 月 23 日凌晨於夏威夷群島上，全球最活耀的火山之一「幾勞亞火山」(Kilauea)，在聖誕節前夕連續兩天爆發，遊客前往大島親眼見證火山噴發的美景。請問：有關夏威夷群島的敘述何者正確？
(A)位於東、北半球　(B)屬於玻里尼西亞群島　(C)多為珊瑚礁島　(D)原住民為毛利人。

(　　)36.「大洋洲的島國吐瓦魯，由於資源貧乏，農業落後，幾乎無工業發展，但漁業資源豐富，主要產業為捕魚業及旅遊業。由於其地勢極低，全球暖化造成的海平面上升，對吐瓦魯造成嚴峻威脅，使得國家的土地面積日漸縮小。」請問：根據文中敘述，吐瓦魯最有可能屬於下列哪一種島嶼成因？
(A)大陸島　(B)火山島　(C)人工島　(D)珊瑚礁島。

(　　)37. 澳洲全國約有五千萬隻袋鼠，數量是澳洲人口的兩倍，紅袋鼠身長約 1.8 公尺，靠著強而有力的後腿來跳躍，是袋鼠中體型最大的一種，主要分布在半乾燥至乾燥地區，並習慣小團體的群居生活。紅袋鼠的主要分布區域最可能為圖(一)中哪一地區？
(A)甲　(B)乙　(C)丙　(D)丁。

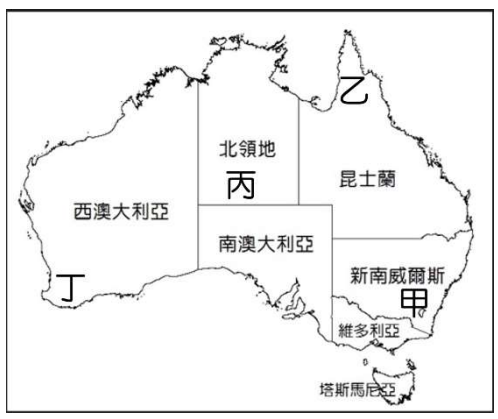

圖(一)

(　　)38. 澳洲除了有袋鼠和無尾熊外，還有針鼴和鴨嘴獸是世界上僅存的兩種卵生哺乳類特有生物，只生存於澳洲。請問：澳洲擁有許多特有種生物的主因為何？
(A)面積廣大、多棲息地　(B)氣候乾燥、沙漠廣布　(C)地勢高聳、人口稀少　(D)四面環海、位置孤立。

(　　)39. 澳洲及紐西蘭受歷史背景影響，昔日所生產的農、礦產多以歐洲為主要市場，但因後來諸多貿易規範，壓縮了與歐洲貿易的獲利空間，加上亞洲經濟崛起，基於「甲」因素的考量，逐漸將市場重心從歐洲轉移到亞洲地區。請問：文中提及的「甲」因素是指歐洲的何種特性？
(A)人口老化，市場逐漸萎縮　(B)人口稀少，市場規模有限　(C)經濟落後，居民消費力低
(D)距離遙遠，運輸成本高昂。

(　　)40.「紐西蘭牛肉特有的天然放牧餵養方式，比其他餵穀物的一般牛肉少油花、低脂肪。」畜牧業是紐西蘭重點產業，與下列哪一個原因最相關？
(A)經濟貧困、資金不足　(B)人口稀少、勞力缺乏　(C)缺乏種植穀物的技術　(D)乾燥氣候區面積廣大。

(　　)41. 西元 2022 年 10 月，紐西蘭公布一項應對氣候變遷的計畫，要求畜牧業者為牲畜打嗝、放屁排放出的溫室氣體繳稅，成為全球第一個徵收「打嗝稅」的國家。據統計，紐西蘭人口約 500 萬，但有約 1,000 萬頭牛和 2,600 萬隻羊，而紐西蘭約一半的溫室氣體都來自農場，龐大的排放量使紐西蘭不得不尋找解決方法。請問：上述畜牧業所排放的溫室氣體，對全球環境造成的衝擊可能為下列何者？
(A)火山噴發愈趨頻繁　(B)雨林面積大幅減少　(C)澳洲大堡礁珊瑚白化　(D)沿海地層下陷愈趨嚴重。

(　　)42. 全球暖化造成北極部分地區融冰，卻打通了世界最新的遠洋航線西北和東北航道，請問借道北極海可直接連通哪兩個海洋？
(A)太平洋、 大西洋 (B)大西洋、 印度洋 (C)太平洋、印度洋　(D)紅海、 地中海。

(　　)43. 下列哪個做法能減緩全球暖化造成的環境問題？
(A)積極開發綠能　(B)推動火力發電　(C)增加石化產能　(D)大量砍伐森林。

＊圖(二)為澳洲氣候分區示意圖。請問：

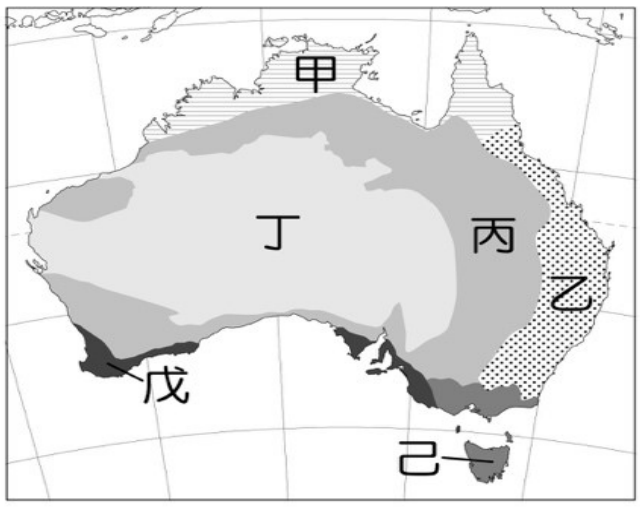

圖(二)

(　)44.臺灣的進口紅酒除了來自歐洲與美國外，澳洲亦是主要來源地之一。澳洲釀製紅酒的葡萄多產於溫帶地中海型氣候，其最可能種植於圖(二)中哪一個地區？
(A)甲　(B)乙　(C)戊　(D)己。

(　)45.圖(二)中哪一個地區因受到東南信風的影響，溫溼多雨，為澳洲人口最稠密的精華區？
(A)乙　(B)丙　(C)丁　(D)戊。

(　)46.圖(二)中丁區熱帶沙漠所占範圍最大，其主因除了背東南信風外，還有受哪一地理因素的影響？
(A)副熱帶高壓壟罩　(B)西澳暖流經過　(C)西風的背風側　(D)深居內陸、距海遙遠。

＊紐西蘭有活的地形教室之稱，北島和南島分別擁有壯麗與多樣的地形，不僅為熱門電影《魔戒》的拍攝地點，也為紐西蘭帶來觀光熱潮。請問：

(　) 47.電影《魔戒》中拯救「中土世界」的方法是將魔戒丟入「末日火山」的岩漿中，該外景選在紐西蘭最高的活火山拍攝。請問：要造訪這個外景現場應到圖(三)中的哪一個位置？

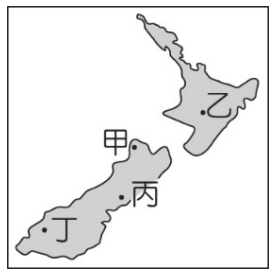

(A)甲　(B)乙　(C)丙　(D)丁。　　圖(三)

(　) 48.電影劇組在拍攝火山噴發煙霧的實景時，考慮到氣候因素，應<u>避免</u>將鏡頭朝向哪一個方向，以免受到特效煙幕的影響而模糊不清？
(A)東方　(B)西方　(C)南方　(D)北方。

＊住在臺灣的地理老師想利用寒假期間前往南極地區旅遊，須經過多次轉機，來到距離南極大陸最近的城鎮——烏斯懷雅，短暫停留一天後，再搭乘郵輪往南極半島前進，其位置及遊覽路線規劃如圖(四)所示。請問：

(　)49.距離南極大陸最近的烏斯懷雅，應位於哪一洲的南端？
(A)澳洲　(B)非洲　(C)南美洲　(D)歐洲。

(　)50.地理老師抵達南極半島時，會看見下列哪一地理景觀？
(A)因紐特人的冰屋　(B)日不升的永夜　(C)成群的企鵝
(D)茂密的寒帶針葉林。

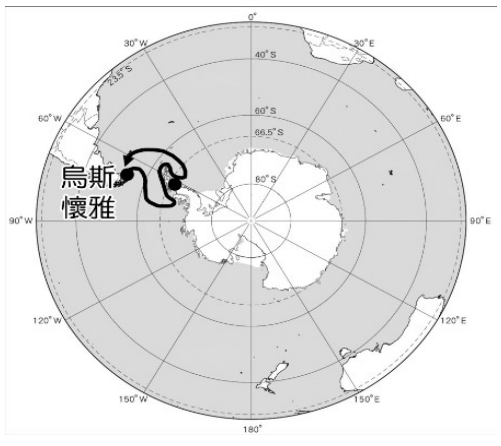

圖(四)

作答完畢　第 6 頁