新北市立鶯歌國民中學 113 學年第一學期 九年級 社會科 第三次段考試題

班級　　座號　　姓名

【歷史科】

17.（　　）以下是中國某朝代首都的簡介：「這是一座依計畫興建的城市，城中可見基督教教堂、伊斯蘭教清真寺及佛教寺廟。朝廷聘用色目人擔任財政官員，並推行全國性紙幣政策，加上各地物資的集中，讓這座城市成為金融經濟中心。」上述城市最可能是指下列何者？ (A)唐代長安　(B)北宋汴京　(C)元代大都　(D)明朝北京。

18.（　　）「東漢末年戰亂頻仍，知識分子四散遷徙，人才難覓。曹丕在正式建立曹魏政權前，為了改善人才選用方式，於延康元年(220 年)實施此方法，在各郡設置中正官，……。」上文中未完的內容，最適合放入下列何者？
(A)與耶穌會傳教士進行交流，引進西方科學知識與技術　(B)挑選各地賢能者，根據才學德行與資歷表現分為九等　(C)主辦地方層級的科舉考試，使平民任官機會逐漸增加　(D)長期戰亂導致地方制度轉變，郡縣制度取代封建制度。

19.（　　）十八世紀有位學者在其著作中提出政府不該壓制人追求財富的私心，反而應該放手讓市場上看不見的手自行發揮，因此他主張「自由競爭、由市場定價、以分工提高生產力」，如此才能創造國家的財富。請問：上文描述的學者是誰？ (A)盧梭 (B)馬克思 (C)孟德斯鳩 (D)亞當斯密。

20.（　　）圖(ㄅ)為近代歐洲的海上探險活動路線圖，關於路線圖的敘述，下列何者錯誤？ (A)路線①、②是西班牙人發現的　(B)路線②是麥哲倫的航海路線，並證實地球是圓的　(C)狄亞士發現路線③，為葡萄牙找到至東方的新航路　(D)白人在乙區濫捕黑人，將他們販賣至甲區為奴隸。

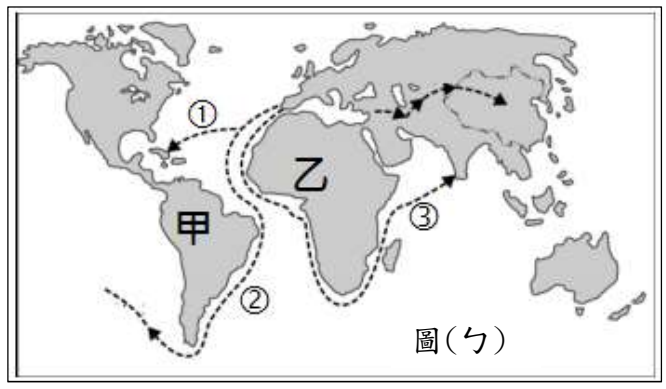

圖（ㄅ）

21.（　　）志偉、冠宇、彥廷、艾莉、珊妮在歷史課堂上討論科學革命，請問提出正確的看法共有幾人？
(A)二人 (B)三人 (C)四人 (D)五人。

志偉	科學革命以前，大多數人認為宇宙是以地球為中心，太陽與其他星體繞著地球運轉。
冠宇	伽利略利用自製的望遠鏡，推翻「太陽中心說」，遭受天主教會的迫害。
彥廷	新工具的發明，例如指南針、溫度計、顯微鏡等，改進觀測與測量的準確度。
艾莉	科學革命以後，人們相信透過理性的思維，可以探知宇宙萬物的運行法則。
珊妮	18 世紀被稱為「天才的世紀」與科學革命有關。

22.（　　）海外遊學團舉辦歡迎會，來自世界各地的同學們輪流介紹自己的國家，請問：哪一位同學「不是」來自於英國？（A）布朗：「十九世紀中期後，我國政府直接統治印度，並生產鴉片傾銷至中國。」（B）露西：「我國曾是啟蒙運動的重鎮，並逐漸影響歐洲大陸各地。」（C）奈勒斯：「我國科學家牛頓是科學革命的集大成者，提出萬有引力定律以及三大運動定律。」（D）莎莉：「我國工程師瓦特改良蒸汽機成功，使生產技術產生重大革新。」

23.（　　）下文是出自某一歷史文件的部分內容：

> 人人生而平等，上帝賦予他們若干不可剝奪的權利，其中包括生命權、自由權和追求幸福的權利。為了保障這些權利，人類才在他們之間建立政府，而政府之正當權力，是經被治理者的同意而產生的。當任何形式的政府對這些目標具破壞作用時，人民便有權力改變或廢除它，以建立一個新的政府。

請問：這份文件主要受到哪兩位思想家的啟發加以撰寫而成？(甲)洛克 (乙)盧梭 (丙)伏爾泰 (丁)孟德斯鳩
(A)甲乙　(B)甲丙　(C)乙丙　(D)乙丁。

24.（　　）若瑤在網路上看到某一部重要著作的評論，其內容提到：「這部著作試圖全面整理和系統化人類的知識，涵蓋了哲學、科學、藝術、技術等多個領域…主編者揭示編寫目的在於將知識傳播給每一個人，使知識成為推動人類文明的力量，培育出智慧的自由發展….. 同時，這部作品對天主教教會與法國王室發出了質疑之聲。」請問：上文提及的「主編者」是下列何人？ (A)盧梭 (B)伏爾泰 (C)狄德羅 (D)孟德斯鳩。

25.（　　）大成在旅遊節目中看到某地的歷史發展介紹：「1788 年 1 月 26 日，由 11 艘船隻組成的英國『第一艦隊』，運載著 1500 人（其中一半是囚犯）抵達東南沿海的港口。直到 1868 年，流放囚犯的政策才結束，但對於當地原住民來說，土地被剝奪、以及外來病毒引起的疾病與死亡，破壞了他們傳統的生活方式與習慣。」請問上述「某地」

是指下列哪一個地區？ (A)墨西哥　(B)印尼　(C)印度　(D)澳洲。

26.（　　）在下面時間軸內（如圖ㄆ所示），甲、乙、丙、丁代表四件近代歐洲重要歷史現象出現時期的示意圖，請問甲、丙、丁所代表歷史現象的說明，何者最為正確？　(A)甲：宗教改革、丙：啟蒙運動、丁：科學革命　(B)甲：文藝復興、丙：宗教改革、丁：啟蒙運動　(C)甲：宗教改革、丙：文藝復興、丁：科學革命　(D)甲：文藝復興、丙：科學革命、丁：啟蒙運動。

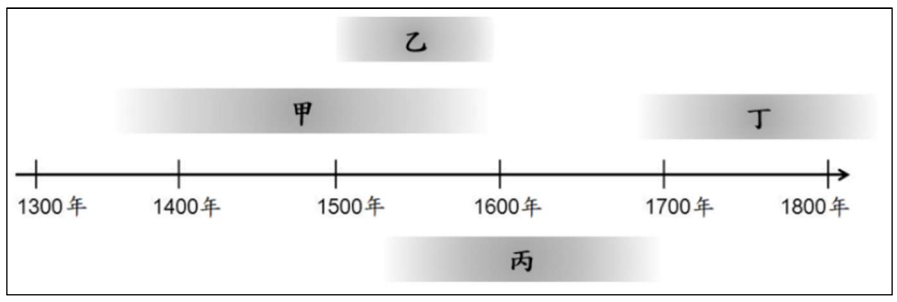

圖（ㄆ）

27.（　　）15 世紀開始，歐洲各國紛紛投入海上探險的行程。請問：當時興起此一行動的主要原因，下列何者敘述錯誤？ (甲)對亞洲商品的需求日益增加 (乙)東西貿易路線被阿拉伯商人掌控 (丙)欲開發美洲的礦產與土地資源 (丁)航海知識與技術的進步　(A)甲丙　(B)乙丙　(C)甲丁　(D)乙丁。

28.（　　）十七世紀初，歐洲一家公司獲得政府授權，專營亞洲貿易。該公司為維持航運暢通，不僅組織軍隊，也在各地設立據點。十七世紀後半期，該公司曾與臺灣鄭氏進行貿易，也幾乎壟斷南亞的貿易，請問上述這家公司來自於哪一個國家？ (A)英國　(B)荷蘭　(C)葡萄牙　(D)西班牙。

29.（　　）表(ㄅ)呈現歷史上某變革的發展，表中的 ？ 最適合填入下列何者？ (A)神學取代科學的趨勢　(B)啟蒙運動思潮的開展　(C)天主教會權威的強化　(D)人文主義思想的萌芽。

開端	哥白尼出版《天體運行論》，提出太陽是宇宙中心的觀點
歷史意義	知識分子質疑傳統權威，建立新觀念、新學說
影響	•改變西方世界對自然的認識 •崇尚理性思維，重視證據 • ？

表(ㄅ)

30.（　　）芳霏撰寫以「工業革命最先發生在英國的原因與發展」為主題的報告，下列何者敘述正確？（甲）引入黑人，提供充足勞動力 （乙）政治較安定 （丙）煤礦的蘊藏豐富 （丁）開始於交通業的改革 （戊）英國開始大幅興建鐵路 （A）甲乙戊 （B）甲丙丁 （C）乙丙丁（D）乙丙戊。

31.（　　）梅斯曼是十七世紀某國公司的貨船船長，他的船將從公司的亞洲總部出發，船上懸掛著繡有 VOC 圖徽的旗幟，裝載著大量香料、蔗糖、瓷器等貨物，準備返回歐洲販售。請問：上文提及的亞洲總部位於圖(ㄇ)的何處？（A）甲　（B）乙　（C）丙　（D）丁。

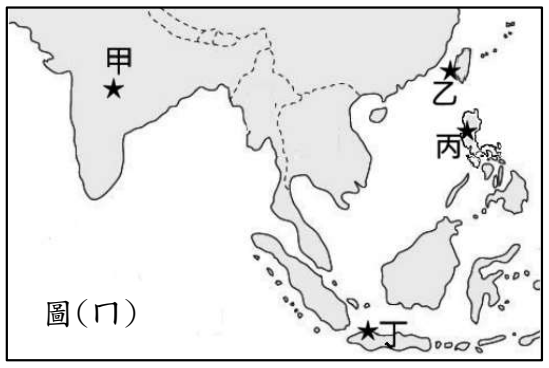

圖（ㄇ）

32.（　　）「工人沒有資本，只得接受資本家的雇傭來掙取工資。資本家為了自己的利益，不斷剝削工人，給他們很低的薪資，卻希望他們生產最多的產品。工人往往只能取得僅僅足夠維持生活的工資，資本家卻可以佔有大部份由工人們生產出來的財富，這種不合理的現象應該要靠廢除私產，規定大家一起勞動才能獲得解決。」請問：上述思想產生的背景可能與何者有關？　(A)工業革命帶來社會問題　(B)啟蒙運動重視反權威　(C)近代歐洲的海外擴張　(D)科學革命使世界觀轉變。

資本：指資金、機器、土地等

33.（　　）小美在筆記上畫了一幅關係圖，其中「？」是筆記的主題，如圖(ㄈ)所示。根據內容判斷，此主題應是下列何者？ (A)19 世紀澳洲淘金熱潮　(B)工業革命的傳播與影響　(C)大航海時代與全球化　(D)歐洲大國宣揚國威與拓展朝貢貿易。

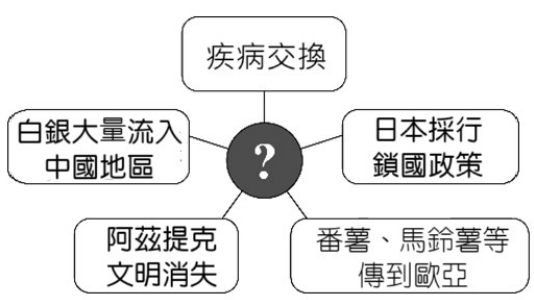

圖（ㄈ）

（背面尚有試題）